Einmaleins:
Die 1-er Reihe üben!

8	·	1	=	___
2	·	1	=	___
5	·	1	=	___
6	·	1	=	___

5	·	1	=	____
2	·	1	=	____
3	·	1	=	____
10	·	1	=	____

8	·	1	=	___
4	·	1	=	___
7	·	1	=	___
1	·	1	=	___

4	·	1	=	___
9	·	1	=	___
2	·	1	=	___
1	·	1	=	___

Alles ausgerechnet? Mit der Schlange kannst du deine Ergebnisse überprüfen. Aber nicht mogeln!

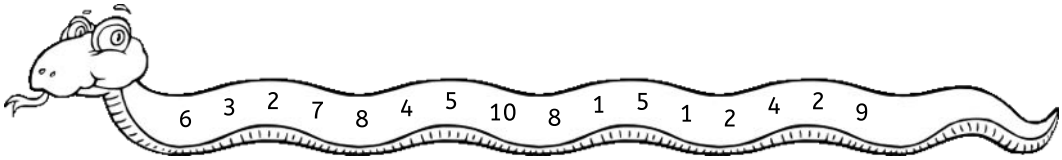

Einmaleins:
Die 1-er Reihe üben!

8	·	1	=	8
2	·	1	=	2
5	·	1	=	5
6	·	1	=	6

5	·	1	=	5
2	·	1	=	2
3	·	1	=	3
10	·	1	=	10

8	·	1	=	8
4	·	1	=	4
7	·	1	=	7
1	·	1	=	1

4	·	1	=	4
9	·	1	=	9
2	·	1	=	2
1	·	1	=	1

Alles ausgerechnet? Mit der Schlange kannst du deine Ergebnisse überprüfen. Aber nicht mogeln!

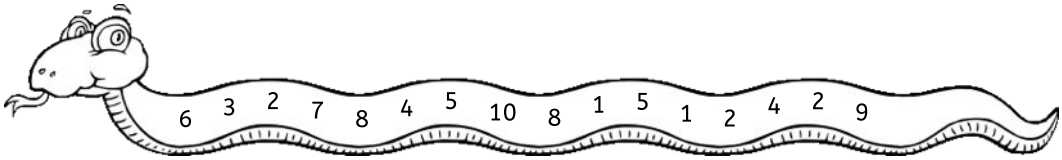

Einmaleins:
Die 2-er Reihe üben!

8 · 2 = ____	4 · 2 = ____
3 · 2 = ____	7 · 2 = ____
6 · 2 = ____	3 · 2 = ____
2 · 2 = ____	2 · 2 = ____

4 · 2 = _____	5 · 2 = _____
5 · 2 = _____	7 · 2 = _____
9 · 2 = _____	9 · 2 = _____
1 · 2 = _____	10 · 2 = _____

Alles ausgerechnet? Mit der Schlange kannst du deine Ergebnisse überprüfen. Aber nicht mogeln!

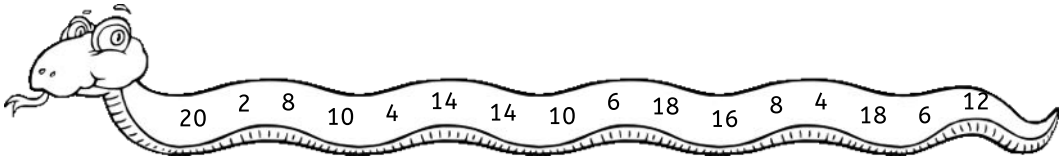

Einmaleins:
Die 2-er Reihe üben!

8	·	2	=	16
3	·	2	=	6
6	·	2	=	12
2	·	2	=	4

4	·	2	=	8
7	·	2	=	14
3	·	2	=	6
2	·	2	=	4

4	·	2	=	8
5	·	2	=	10
9	·	2	=	18
1	·	2	=	2

5	·	2	=	10
7	·	2	=	14
9	·	2	=	18
10	·	2	=	20

Alles ausgerechnet? Mit der Schlange kannst du deine Ergebnisse überprüfen. Aber nicht mogeln!

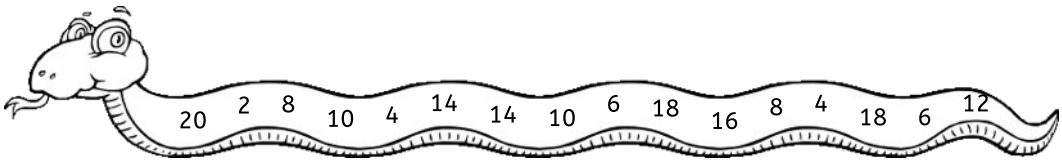

Einmaleins:
Die 3-er Reihe üben!

2 · 3 = ____	3 · 3 = ____
8 · 3 = ____	10 · 3 = ____
3 · 3 = ____	7 · 2 = ____
5 · 3 = ____	5 · 3 = ____

9 · 3 = ____	6 · 3 = ____
2 · 3 = ____	1 · 3 = ____
10 · 3 = ____	3 · 3 = ____
4 · 3 = ____	9 · 3 = ____

Alles ausgerechnet? Mit der Schlange kannst du deine Ergebnisse überprüfen. Aber nicht mogeln!

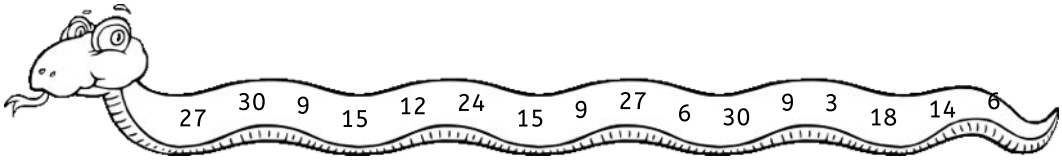

Einmaleins:
Die 3-er Reihe üben!

2	·	3	=	6
8	·	3	=	24
3	·	3	=	9
5	·	3	=	15

3	·	3	=	9
10	·	3	=	30
7	·	2	=	14
5	·	3	=	15

9	·	3	=	27
2	·	3	=	6
10	·	3	=	30
4	·	3	=	12

6	·	3	=	18
1	·	3	=	3
3	·	3	=	9
9	·	3	=	27

Alles ausgerechnet? Mit der Schlange kannst du deine Ergebnisse überprüfen. Aber nicht mogeln!

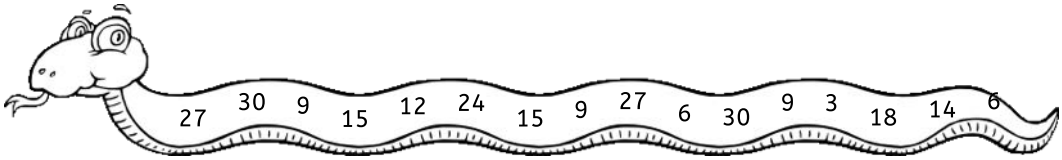

Einmaleins:
Die 4-er Reihe üben!

1	·	4	=	____
9	·	4	=	____
10	·	4	=	____
6	·	4	=	____

3	·	4	=	____
5	·	4	=	____
4	·	4	=	____
9	·	4	=	____

9	·	4	=	_____
1	·	4	=	_____
4	·	4	=	_____
7	·	4	=	_____

6	·	4	=	____
8	·	4	=	____
2	·	4	=	____
1	·	4	=	____

Alles ausgerechnet? Mit der Schlange kannst du deine Ergebnisse überprüfen. Aber nicht mogeln!

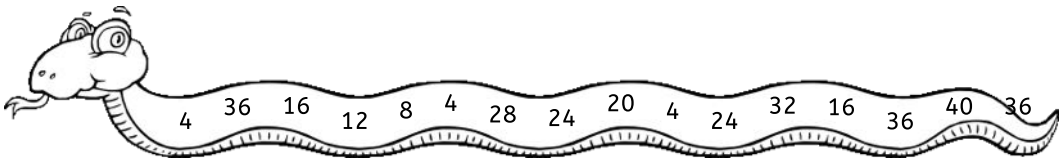

Einmaleins:
Die 4-er Reihe üben!

1	·	4	=	4
9	·	4	=	36
10	·	4	=	40
6	·	4	=	24

3	·	4	=	12
5	·	4	=	20
4	·	4	=	16
9	·	4	=	36

9	·	4	=	36
1	·	4	=	4
4	·	4	=	16
7	·	4	=	28

6	·	4	=	24
8	·	4	=	32
2	·	4	=	8
1	·	4	=	4

Alles ausgerechnet? Mit der Schlange kannst du deine Ergebnisse überprüfen. Aber nicht mogeln!

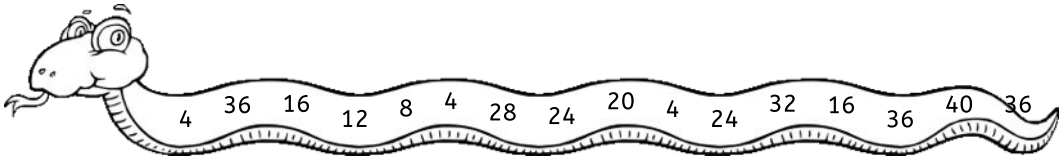

Einmaleins:
Die 5-er Reihe üben!

3	·	5	=	____
6	·	5	=	____
7	·	5	=	____
9	·	5	=	____

2	·	5	=	____
9	·	5	=	____
10	·	5	=	____
7	·	5	=	____

3	·	5	=	____
5	·	5	=	____
6	·	5	=	____
4	·	5	=	____

6	·	5	=	____
1	·	5	=	____
9	·	5	=	____
8	·	5	=	____

Alles ausgerechnet? Mit der Schlange kannst du deine Ergebnisse überprüfen. Aber nicht mogeln!

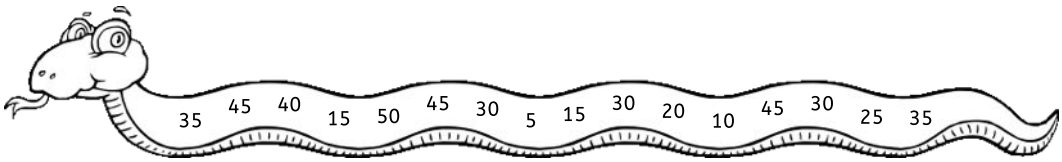

Einmaleins:
Die 5-er Reihe üben!

3	·	5	=	15
6	·	5	=	30
7	·	5	=	35
9	·	5	=	45

2	·	5	=	10
9	·	5	=	45
10	·	5	=	50
7	·	5	=	35

3	·	5	=	15
5	·	5	=	25
6	·	5	=	30
4	·	5	=	20

6	·	5	=	30
1	·	5	=	5
9	·	5	=	45
8	·	5	=	40

Alles ausgerechnet? Mit der Schlange kannst du deine Ergebnisse überprüfen. Aber nicht mogeln!

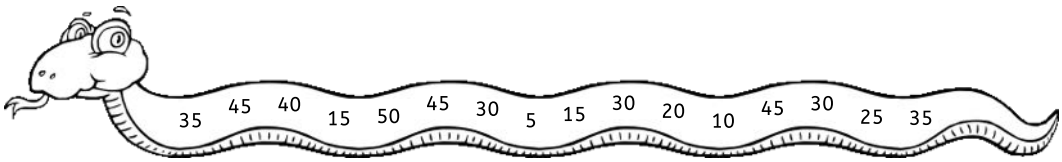

Einmaleins:
Die 6-er Reihe üben!

4	·	6	=	____
6	·	6	=	____
1	·	6	=	____
10	·	6	=	____

10	·	6	=	_____
3	·	6	=	_____
5	·	6	=	_____
1	·	6	=	_____

5	·	6	=	_____
7	·	6	=	_____
1	·	6	=	_____
8	·	6	=	_____

1	·	6	=	____
6	·	6	=	____
2	·	6	=	____
9	·	6	=	____

Alles ausgerechnet? Mit der Schlange kannst du deine Ergebnisse überprüfen. Aber nicht mogeln!

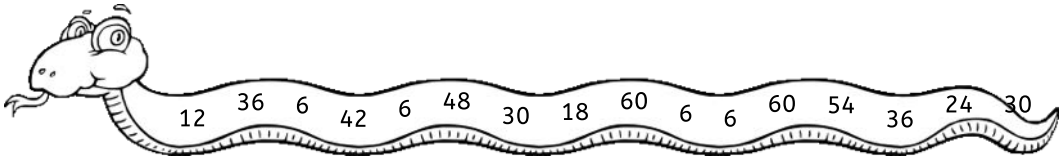

Einmaleins:
Die 6-er Reihe üben!

4	·	6	=	24
6	·	6	=	36
1	·	6	=	6
10	·	6	=	60

10	·	6	=	60
3	·	6	=	18
5	·	6	=	30
1	·	6	=	6

5	·	6	=	30
7	·	6	=	42
1	·	6	=	6
8	·	6	=	48

1	·	6	=	6
6	·	6	=	36
2	·	6	=	12
9	·	6	=	54

Alles ausgerechnet? Mit der Schlange kannst du deine Ergebnisse überprüfen. Aber nicht mogeln!

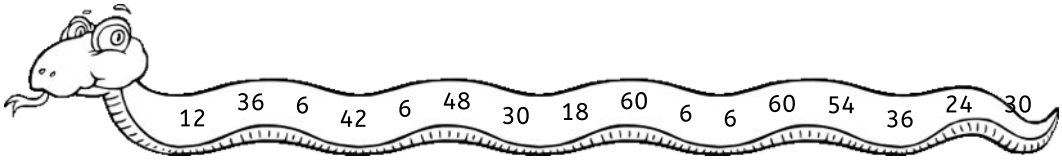

Einmaleins:
Die 7-er Reihe üben!

2 · 7 = _____	6 · 7 = ____
8 · 7 = _____	2 · 7 = ____
4 · 7 = _____	3 · 7 = ____
6 · 7 = _____	10 · 7 = ____

7 · 7 = ____	7 · 7 = ____
9 · 7 = ____	5 · 7 = ____
3 · 7 = ____	1 · 7 = ____
6 · 7 = ____	9 · 7 = ____

Alles ausgerechnet? Mit der Schlange kannst du deine Ergebnisse überprüfen. Aber nicht mogeln!

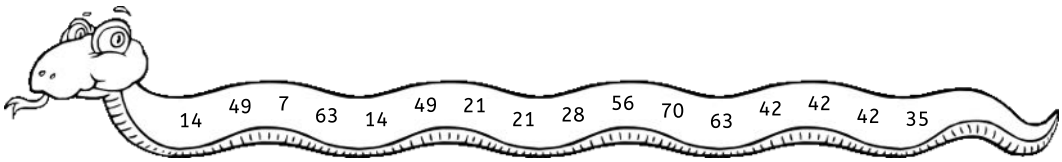

Einmaleins:
Die 7-er Reihe üben!

2	·	7	=	14
8	·	7	=	56
4	·	7	=	28
6	·	7	=	42

6	·	7	=	42
2	·	7	=	14
3	·	7	=	21
10	·	7	=	70

7	·	7	=	49
9	·	7	=	63
3	·	7	=	21
6	·	7	=	42

7	·	7	=	49
5	·	7	=	35
1	·	7	=	7
9	·	7	=	63

Alles ausgerechnet? Mit der Schlange kannst du deine Ergebnisse überprüfen. Aber nicht mogeln!

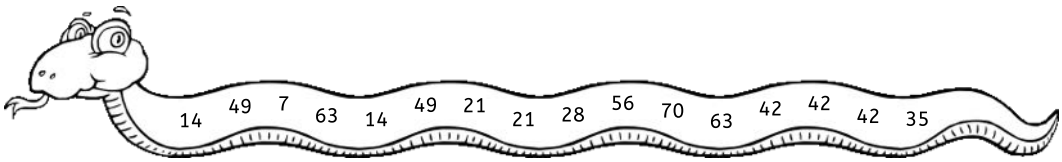

Einmaleins:
Die 8-er Reihe üben!

6	·	8	=	_____
5	·	8	=	_____
10	·	8	=	_____
9	·	8	=	_____

8	·	8	=	____
3	·	8	=	____
5	·	8	=	____
10	·	8	=	____

9	·	8	=	____
1	·	8	=	____
2	·	8	=	____
7	·	8	=	____

4	·	8	=	_____
10	·	8	=	_____
7	·	8	=	_____
6	·	8	=	_____

Alles ausgerechnet? Mit der Schlange kannst du deine Ergebnisse überprüfen. Aber nicht mogeln!

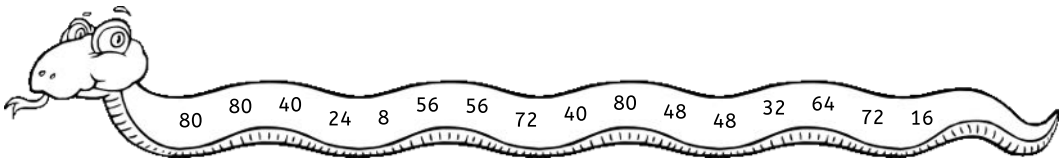

Einmaleins:
Die 8-er Reihe üben!

6	·	8	=	48
5	·	8	=	40
10	·	8	=	80
9	·	8	=	72

8	·	8	=	64
3	·	8	=	24
5	·	8	=	40
10	·	8	=	80

9	·	8	=	72
1	·	8	=	8
2	·	8	=	16
7	·	8	=	56

4	·	8	=	32
10	·	8	=	80
7	·	8	=	56
6	·	8	=	48

Alles ausgerechnet? Mit der Schlange kannst du deine Ergebnisse überprüfen. Aber nicht mogeln!

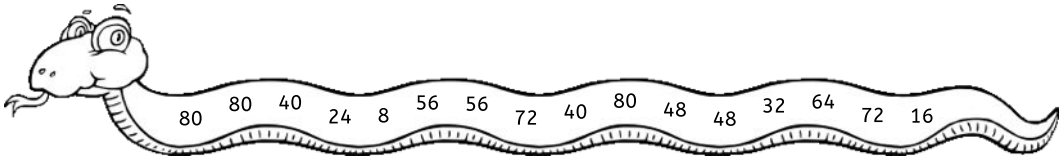

Einmaleins:
Die 9-er Reihe üben!

8 · 9 = ____	9 · 9 = ____
1 · 9 = ____	8 · 9 = ____
5 · 9 = ____	7 · 9 = ____
4 · 9 = ____	5 · 9 = ____

3 · 9 = ____	6 · 9 = ____
9 · 9 = ____	1 · 9 = ____
10 · 9 = ____	3 · 9 = ____
8 · 9 = ____	2 · 9 = ____

Alles ausgerechnet? Mit der Schlange kannst du deine Ergebnisse überprüfen. Aber nicht mogeln!

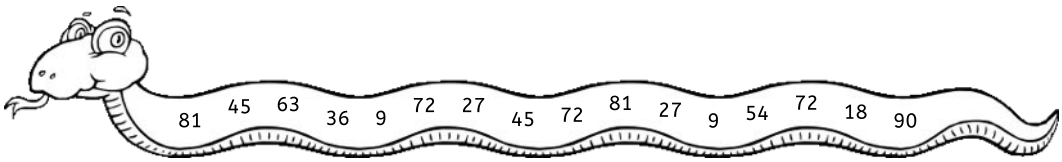

Einmaleins:
Die 9-er Reihe üben!

8	·	9	=	72
1	·	9	=	9
5	·	9	=	45
4	·	9	=	36

9	·	9	=	81
8	·	9	=	72
7	·	9	=	63
5	·	9	=	45

3	·	9	=	27
9	·	9	=	81
10	·	9	=	90
8	·	9	=	72

6	·	9	=	54
1	·	9	=	9
3	·	9	=	27
2	·	9	=	18

Alles ausgerechnet? Mit der Schlange kannst du deine Ergebnisse überprüfen. Aber nicht mogeln!

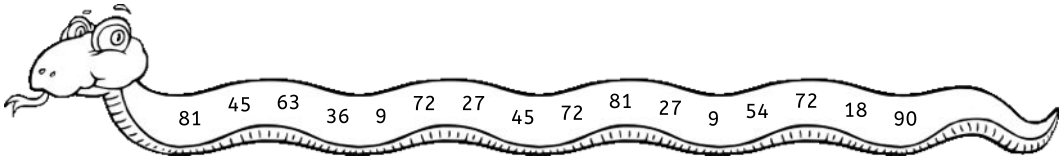

Einmaleins:
Die 10-er Reihe üben!

2 · 10 = ____

8 · 10 = ____

4 · 10 = ____

9 · 10 = ____

7 · 10 = _____

10 · 10 = _____

4 · 10 = _____

6 · 10 = _____

8 · 10 = ____

9 · 10 = ____

1 · 10 = ____

6 · 10 = ____

2 · 10 = ____

3 · 10 = ____

5 · 10 = ____

6 · 10 = ____

Alles ausgerechnet? Mit der Schlange kannst du deine Ergebnisse überprüfen. Aber nicht mogeln!

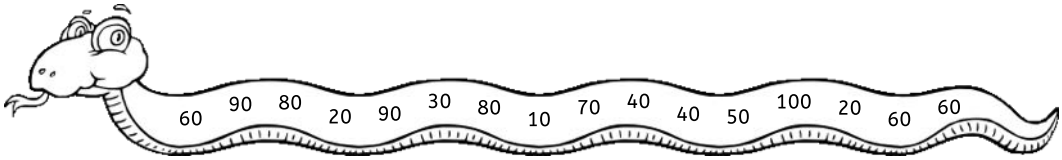

Einmaleins:
Die 10-er Reihe üben!

2	·	10	=	20
8	·	10	=	80
4	·	10	=	40
9	·	10	=	90

7	·	10	=	70
10	·	10	=	100
4	·	10	=	40
6	·	10	=	60

8	·	10	=	80
9	·	10	=	90
1	·	10	=	10
6	·	10	=	60

2	·	10	=	20
3	·	10	=	30
5	·	10	=	50
6	·	10	=	60
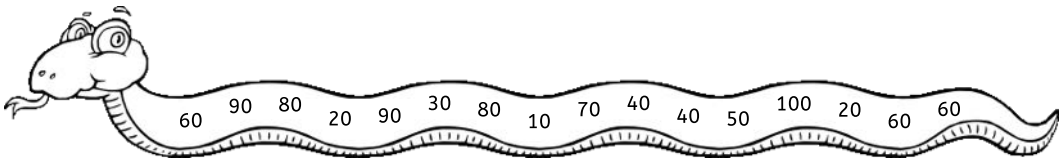
Alles ausgerechnet? Mit der Schlange kannst du deine Ergebnisse überprüfen. Aber nicht mogeln!